ANA
ASOCIACIÓN NAVARRA DE AUTISMO

TALLER DE PROBLEMAS

PROBLEMAS DE MATEMÁTICAS DE 1º DE PRIMARIA

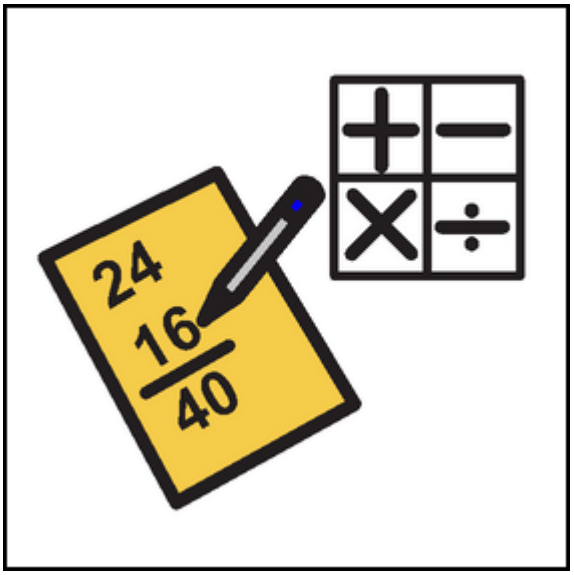



ADAPTADO PARA MARIO DESDE MATERIAL DE 1º DE PRIMARIA DE COLEGIO CONCERTADO DE PAMPLONA

Elaborado por Amaya Ariz info.ana@autismonavarra.com

ANA
ASOCIACIÓN NAVARRA DE AUTISMO

1

Lee, dibuja y completa:
En un frutero hay cinco naranjas. Y en otro hay dos peras.

Dibuja las naranjas.

Hay ☐ naranjas.

Dibuja las peras.

Hay ☐ peras.

- ¿Cuántas frutas hay entre los dos fruteros?



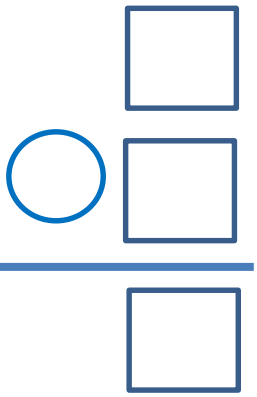

- Entre los dos fruteros hay ☐ frutas

Elaborado por Amaya Ariz info.ana@autismonavarra.com

ANA
ASOCIACIÓN NAVARRA DE AUTISMO

2

Lee y observa.
En un jarrón hay dos rosas. En otro, seis margaritas.



- Dibuja las flores que hay en total y resuelve:



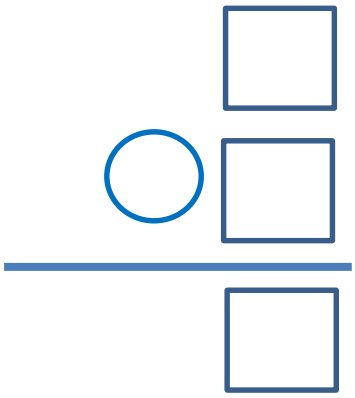

- En total hay ☐ flores.

Elaborado por Amaya Ariz info.ana@autismonavarra.com

ANA
ASOCIACIÓN NAVARRA DE AUTISMO

3

Lee y resuelve.

Tengo 2 huevos

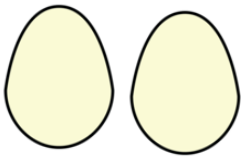



- ¿Cuántos huevos tienen entre las dos gallinas?

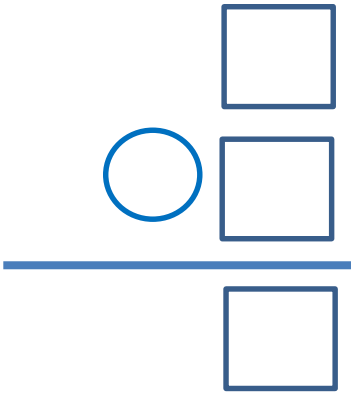

Tengo 4 huevos

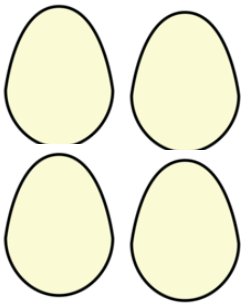



- En total tienen ☐ huevos.

Elaborado por Amaya Ariz info.ana@autismonavarra.com

ANA
ASOCIACIÓN NAVARRA DE AUTISMO

4

Óscar tiene  . Su abuela le compra 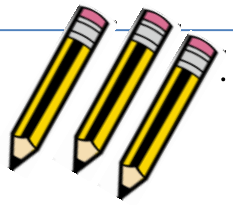 .

¿Cuántos lápices tiene ahora Óscar?

Lápices que tiene Óscar:

Lápices que le han comprado:

Lápices que tiene ahora:

Solución: Óscar tiene _____ lápices

5

Marta tiene 3 cromos y su amigo Juan le regala 3 más. ¿Cuántos cromos tiene Marta? .

Cromos que tiene Marta:

Cromos que le regala Juan:

Cromos que tiene ahora Marta:

Solución: Marta tiene _____ cromos.

Elaborado por Amaya Ariz info.ana@autismonavarra.com

ANA
ASOCIACIÓN NAVARRA DE AUTISMO

6

En una pecera hay 6 peces de colores y traen 2 peces más. ¿Cuántos peces hay ahora en la pecera?

Peces que hay en la pecera:

Peces que han traído:

Peces que hay ahora:

Solución: En la pecera hay _____ peces.

7

Antonio tiene 3 cromos de animales y Ana tiene 5. ¿Cuántos cromos tienen entre los dos?

¿Qué sabes?



¿Qué te preguntan?



¿Qué debes hacer para responder?

☐ sumar ☐ restar

Respuesta: entre los dos tienen _____ cromos.

Elaborado por Amaya Ariz info.ana@autismonavarra.com

ANA
ASOCIACIÓN NAVARRA DE AUTISMO

8

En un plato hay 4 manzanas y en otro 3. ¿Cuántas manzanas hay en total?

¿Qué sabes?



¿Qué te preguntan?



¿Qué debes hacer para responder?

☐ sumar ☐ restar

Respuesta: En total hay _____ manzanas.

9

En un árbol hay 5 pájaros y en otro 4. ¿Cuántos pájaros hay en los dos árboles?



Respuesta: En los dos árboles hay _____ pájaros.

Elaborado por Amaya Ariz info.ana@autismonavarra.com

ANA
ASOCIACIÓN NAVARRA DE AUTISMO

10

En un jardín hay 5 rosales y en otro hay 3 rosales. ¿Cuántos rosales hay en total?

Respuesta:
En total hay _____ rosales.

11

Mi hermano tiene 4 cuentos y yo tengo 6. ¿Cuántos cuentos reunimos entre los dos?

Respuesta: Entre los dos reunimos_____ cuentos.

12

Ana tenía 7 canicas y ha perdido 5 canicas. ¿Cuántas canicas le quedan?

¿Qué sabes?

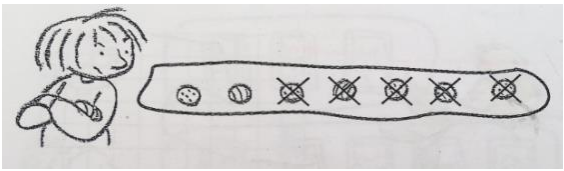

¿Qué debes hacer para responder?

sumar restar

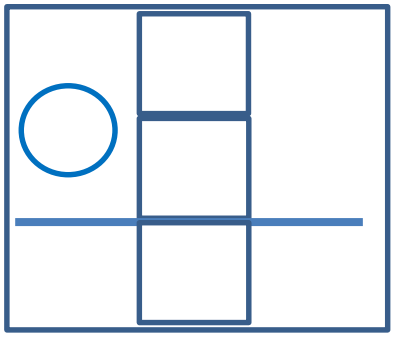

¿Qué te preguntan?

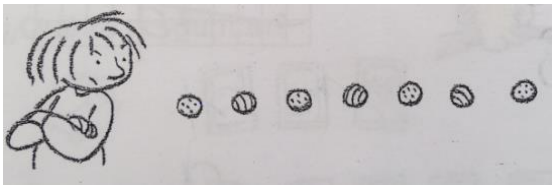

Respuesta: A Ana le quedan _____ canicas.

Elaborado por Amaya Ariz info.ana@autismonavarra.com

ANA
ASOCIACIÓN NAVARRA DE AUTISMO

13

En un árbol había 6 pájaros y han volado 3. ¿Cuántos quedan?

¿Qué sabes?



¿Qué te preguntan?

¿Qué debes hacer para responder?

☐ sumar ☐ restar

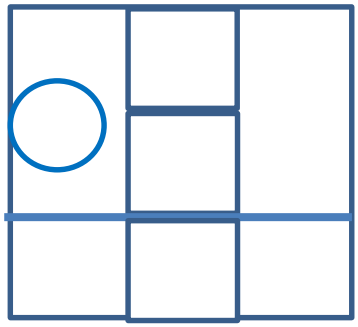

Respuesta: Quedan _____ pájaros.

14

En una caja hay 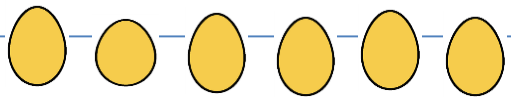 Se cae la caja al suelo y se rompen ¿Cuántos huevos quedan?

Huevos de la caja:

Huevos que se rompen:

Huevos que quedan:

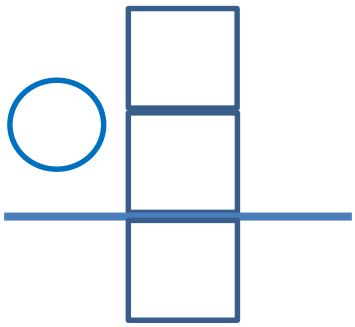

Respuesta: En la caja quedan_____ huevos.

Elaborado por Amaya Ariz info.ana@autismonavarra.com

ANA
ASOCIACIÓN NAVARRA DE AUTISMO

15

En un coche viajaban 5 personas. Si se bajan 3 personas, ¿cuántas personas hay ahora?

Personas que viajaban:

Personas que se bajan:

Personas que hay en el coche:

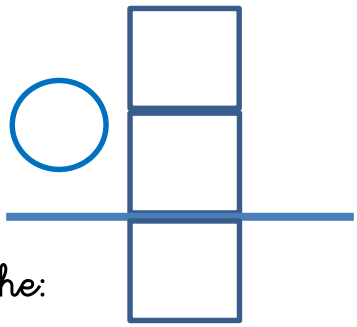

Solución:: En el coche hay _____ personas.

16

Entre 7 compañeros estamos decorando un mural para la clase. Si se marchan 4 al recreo, ¿cuántos nos quedamos decorando el mural?

Compañeros que estamos en el grupo:

Compañeros que se van al recreo

Huevos que quedan:

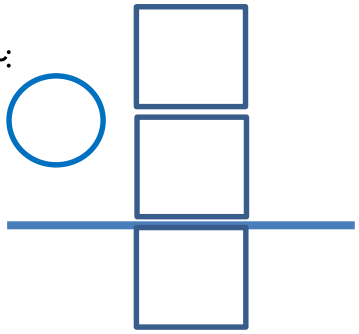

Respuesta: Nos quedamos_____ compañeros decorando el mural.

Elaborado por Amaya Ariz info.ana@autismonavarra.com

ANA
ASOCIACIÓN NAVARRA DE AUTISMO

16

Un rosal tenía 5 rosas y mamá ha cortado 3 rosas. ¿Cuántas rosas quedan en el rosal?



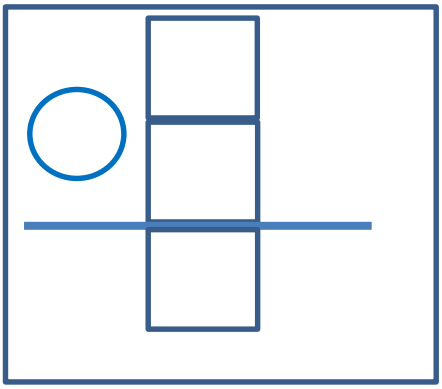

Respuesta: En el rosal quedan _____ rosas.

17

Cecilia tenía 8 canicas pero perdió 4. ¿Cuántas canicas le quedan?

Respuesta: A Cecilia le quedan _____ canicas

18

Un mecánico tiene que arreglar 8 coches. Ya ha arreglado 3. ¿Cuántos le quedan por arreglar?

Respuesta: Al mecánico le quedan _____ coches.

Elaborado por Amaya Ariz info.ana@autismonavarra.com

19

Completa con el número de pájaros y resuelve:



Había ☐ Se marchan ☐ Quedan ☐

☐ pájaros que había

○ ☐ pájaros que se marchan

———

☐ pájaros que se quedan

Quedan ☐ pájaros en la jaula.

Elaborado por Amaya Ariz info.ana@autismonavarra.com

20

En mi nevera había 15 yogures. Me como 4.

- Tacha los yogures que me como



¿Cuántos yogures me quedan?

Había ◯ □

Me como □

Quedan □

Me quedan □ yogures.

Elaborado por Amaya Ariz info.ana@autismonavarra.com

ANA
ASOCIACIÓN NAVARRA DE AUTISMO

21

Ana tiene 6 céntimos y Miguel tiene otros 6. ¿Cuántos céntimos tienen en total?

Respuesta: En total tienen _____

22

Andrés compra 5 chicles y Julia 6 chicles. ¿Cuántos chicles compran entre los dos?

Respuesta: Entre los dos compran _____

23

Fernando tiene 13 años y su hermana tiene 5 años. ¿Cuántos años tienen entre los dos?

Respuesta: Entre los dos tienen _____

24

Papá se ha comido 7 fresas y mamá 5 fresas. ¿Cuántas fresas se han comido en total?

Respuesta: En total se han comido _____

Elaborado por Amaya Ariz info.ana@autismonavarra.com

25

Sara tiene un bote de pelotas de tenis. Si en cada bote caben 10 pelotas y ahora solo tiene 7 pelotas, ¿cuántas pelotas de tenis le faltan a Sara para llenar el bote?

- Dibuja las pelotas de tenis que faltan para llenar el bote:

- ¿Cuántas pelotas de tenis tiene Sara? _____ pelotas.
- ¿Cuántas pelotas has dibujado para llenar el bote? _____ pelotas.

Elaborado por Amaya Ariz info.ana@autismonavarra.com

26

Alejandro tiene 5 coches y Ana otros 5

- Quién tiene más coches?
  - ☐ Alejandro
  - ☐ Ana
  - ☐ Los dos tienen el mismo número de coches

- Cuántos coches tienen entre los dos?
  - ☐ 1 decena
  - ☐ 10 coches
  - ☐ 5 coches

- Cuántos coches tiene más Alejandro que Ana?
  - ☐ 5 coches
  - ☐ Los dos tienen el mismo número de coches

Elaborado por Amaya Ariz info.ana@autismonavarra.com

27

Lee y comprende.

Un gorila tenía 16 plátanos. Por la tarde, tuvo hambre y se comió 6.

¿Cuántos plátanos le quedan?

- Tacha los plátanos que se ha comido:



¿Cuántos plátanos le quedan?

Tenía: ☐

Comió: ○ ☐

Le quedan: ☐

Solución: le quedan ☐ plátanos

28

Resuelve.

En un autobús viajan 19 personas. En una parada se bajan 8 de ellas.

¿Cuántas personas quedan en el autobús?

Viajan: ☐

Bajan: ○ ☐

Quedan: ☐

Solución: Quedan ☐ personas

Elaborado por Amaya Ariz info.ana@autismonavarra.com

29

Luis tiene 5 botones en su camisa y Alba los mismos botones que Luis.
¿Cuántos botones tienen entre los dos?

Botones de la camisa de Luis: ☐

Botones de la camisa de Alba: ☐

Botones entre los dos: ☐

Solución: Entre los dos tienen ☐ botones.

30

El perro de Olga pesa 10 kilos y su gato solamente 3 kilos.
¿Cuántos kilos pesan entre el perro y el gato?

Peso del perro: ☐

Peso del gato: ☐

Peso de los dos juntos: ☐

Solución: Entre el perro y el gato pesan ☐ kilos.

Elaborado por Amaya Ariz info.ana@autismonavarra.com

ANA
ASOCIACIÓN NAVARRA DE AUTISMO

31

En una cesta había 12 melocotones. Si metemos 4 más, ¿cuántos melocotones hay ahora en la cesta?

Melocotones de la cesta: ☐

Melocotones que metemos: ☐

Melocotones que hay ahora: ☐

Solución: En la cesta hay ☐ melocotones.

32

Marisa compra 7 filetes
Y preparar 4 para la comida.
¿Cuántos filetes le quedan?

Respuesta: A Marisa le quedan ☐ filetes.

33

¿Cuántos huevos quedan en una cesta que tenía 26 huevos, si nos hemos comido 6?

Respuesta: En la cesta quedan ☐ huevos.

Elaborado por Amaya Ariz info.ana@autismonavarra.com

ANA
ASOCIACIÓN NAVARRA DE AUTISMO

37

Un árbol tenía 9 flores y se le han caído 4. ¿Cuántas flores le quedan?



Respuesta: Al árbol le quedan _____

38

LEE CON CUIDADO Y MARCA QUÉ OPERACIÓN DEBES HACER:

En el frigorífico había 18 botellas de refresco y nos hemos bebido 7. ¿Cuántas botellas quedan?

Operación: ☐ sumar ☐ restar

Respuesta:
Quedan _____

Elaborado por Amaya Ariz info.ana@autismonavarra.com

ANA
ASOCIACIÓN NAVARRA DE AUTISMO

39

En una pecera había 27 peces
y metieron 12 peces más.
¿Cuántos peces hay ahora?

Operación: ☐ sumar ☐ restar

Respuesta:

_____

40

Si vuelan 3 pájaros de este nido,
¿cuántos quedan?

Operación: ☐ sumar ☐ restar

Respuesta:

_____

Elaborado por Amaya Ariz info.ana@autismonavarra.com

41

Resuelve:

Raquel tiene 25 euros. Le compra un collar a su mamá que le cuesta 21 euros. ¿Cuántos euros le quedan a Raquel?

Tiene: ☐

Le cuesta: ☐

Le quedan: ☐

Le quedan ☐ _____

42

Javier compró 23 cromos, pero en el patio perdió 11. ¿Cuántos cromos tiene ahora Javier?

Compró: ☐

Perdió: ☐

Tiene: ☐

Ahora tiene ☐ _____

Elaborado por Amaya Ariz info.ana@autismonavarra.com

ANA
ASOCIACIÓN NAVARRA DE AUTISMO

43

Resuelve:
Veintiocho melones tenía el melonar. Veinte comieron los niños. ¿Cuántos melones quedarán?

Tenía: ☐

Comieron: ☐

Quedan: ☐

Le quedan _____

44

Una profesora tenía 57 lápices y ha repartido 25 entre sus alumnos, ¿Cuántos lápices tiene ahora?

Ahora tiene _____

En una caja había 64 bombones. Nos hemos comido 21. ¿Cuántos bombones quedan?

Quedan _____

Elaborado por Amaya Ariz info.ana@autismonavarra.com

45

Resuelve:

Veintiocho melones tenía el melonar. Veinte comieron los niños.
¿Cuántos melones quedarán?

Tenía: ☐

Comieron: ☐

Quedan: ☐

En el melonar quedan ☐ _____

46

Ramón tenía 29 pelos en la cabeza. Peinándose, se le cayeron 17.
¿Cuántos pelos tiene ahora Ramón?

Tenía: ☐

Cayeron: ☐

Tiene: ☐

Ramón tiene ahora ☐ _____ .

Elaborado por Amaya Ariz info.ana@autismonavarra.com

ANA
ASOCIACIÓN NAVARRA DE AUTISMO

47

¿Cuántos céntimos tengo, si mi padre me ha dado 25 céntimos y mi hermano 4 céntimos?

Respuesta:
Tengo _____

48

¿Cuántas canicas tiene Pablo, si en una bolsa tiene 24 canicas y en otra 3 canicas?

Respuesta: Pablo tiene _____
_____

49

Una vaca da 6 litros de leche y otra vaca da 12 litros. ¿Cuántos litros dan entre las dos vacas?

Respuesta: Entre las dos vacas dan _____

50

En una cesta hay 21 naranjas y en otra cesta hay 8 naranjas. ¿Cuántas naranjas hay en total?

Respuesta:
En total hay_____

Elaborado por Amaya Ariz info.ana@autismonavarra.com

51

Gabriela ha prestado 7 libros. Le han devuelto 4.
¿Cuántos le faltan para recuperar?

¿Qué sabes?

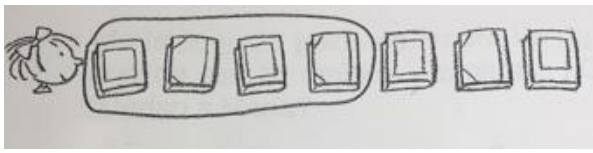

¿Qué te preguntan?



¿Qué debes hacer para responder?

☐ sumar ☐ restar

Respuesta: A Gabriela le faltan por recuperar _____ libros.

52

Miguel quiere meter en una caja 8 naranjas. Ya ha metido 4 naranjas.
¿Cuántas naranjas le falta meter?

¿Qué sabes?

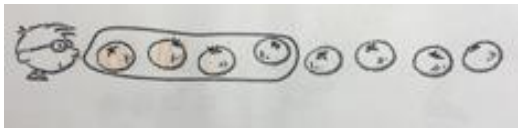

¿Qué te preguntan?

¿Qué debes hacer para responder?

☐ sumar ☐ restar

Respuesta: A Miguel le falta meter _____ naranjas.

Elaborado por Amaya Ariz info.ana@autismonavarra.com

- De una cuerda de 9 metros corto tres. ¿Cuántos me quedan?

Operación:

Respuesta:_____

- De un cuento que tiene 18 hojas leo 12. ¿Cuántas me faltan para acabarlo?

Operación:

Me faltan:_____

- ¿Cuántas tenía y cuántas le quedan? Operación:

Respuesta:_____

- ¿Un viajante sale con 25 libros de gasolina

Y regresa con 13. ¿Cuántos ha gastado en el viaje?

Operación:



Respuesta:_____

54

Resuelve:

María tiene 26 polos de limón. Le da un polo a cada uno de sus 15 amigos y amigas. ¿Cuántos polos le quedan a María?

Personas que viajaban:



Solución:: A_____ le quedan ☐ _____.

55

Mi profesora tenía 22 lápices. Nos dio un lápiz a cada uno de los a11 alumnos y alumnas de la clase.

¿Cuántos lápices le quedan a mi profesora?



Solución:: A mi _____ le quedan ☐ _____..

Elaborado por Amaya Ariz info.ana@autismonavarra.com

55

Resuelve:

Mi madre tiene guardados en un bote 22 chicles y 13 caramelos.
¿Cuántas golosinas tiene mi madre en el bote?



Solución:: Mi_____ tiene _____.

56

Viendo un partido de fútbol había 36 personas, pero en el descanso se fueron 15. ¿Cuántas personas hay ahora viendo el partido?

Solución:: Ahora hay _____ viendo el partido.

Elaborado por Amaya Ariz info.ana@autismonavarra.com

57

Miguel compra un osos y un balón. ¿Cuánto gasta?

Gasta _____ euros..

Antonio compra un osos y un avión. ¿Cuánto paga?

Paga _____ euros..

¿Quién de los dos ha gastado más?

_____

¿Cuánto más?

_____ euros..

María compra una muñeca y otro juguete. Paga 39 euros. ¿Cuál es el otro juguete?

Es: _____

Elaborado por Amaya Ariz info.ana@autismonavarra.com

58

Resuelve:

En un museo había 27 guardias de seguridad. De ellos, 12 se fueron a comer. ¿Cuántos guardias hay ahora en el museo?

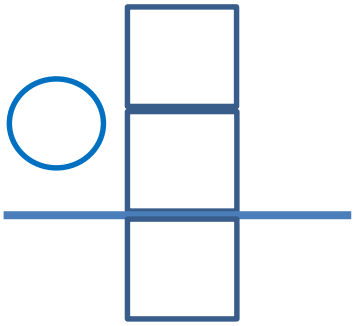

Solución:: Ahora hay _____ en el museo.

59

En un concurso de televisión participaron 17 hombres y 20 mujeres. ¿Cuántas personas participaron en el concurso?



En el concurso participaron _____.

Elaborado por Amaya Ariz info.ana@autismonavarra.com

60

Resuelve:

Yo tenía 30 monedas. Me han dado 13 más.

¿Cuántas monedas tengo ahora?

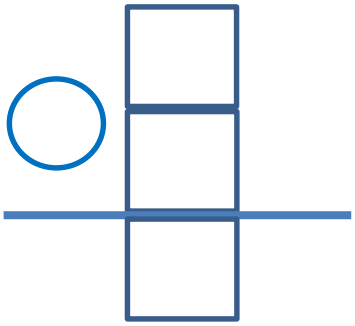

Solución:: Ahora tengo 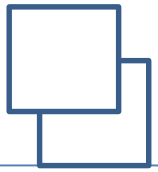 _____.

61

Resuelve:

María tiene 13 piruletas. Laura tiene 13 caramelos.

¿Quién tiene más chucherías?

Solución:: _____

Elaborado por Amaya Ariz info.ana@autismonavarra.com

62

Un profesor tienen 22 entradas y otro 17 entradas. ¿A cuántos niños pueden llevar al cine?

Solución:: Pueden llevar _____.

He regalado a mi madre un ramo con 37 margaritas. Si se marchitan 13, ¿cuántas le quedan?

Solución:: Le quedan _____.

¿Cuál es la carga de la carretilla?

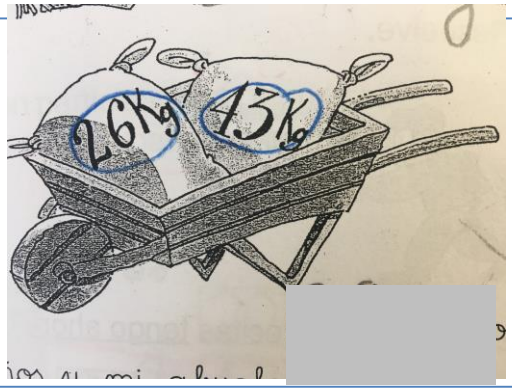

Solución:: kilos.

Yo tengo 9 años y mi hermana tiene 7 años.. ¿Cuántos años le paso yo a mi hermana?

Solución: Le paso años.

Elaborado por Amaya Ariz info.ana@autismonavarra.com

63

Mi madre tiene 47 años y mi padre tiene 46 años. ¿Cuántos años le pasa mi padre a mi madre?

Solución: Le pasa _____ años.

Mi abuelo tiene 68 años y mi abuela 65. ¿Cuántos años le pasa mi abuelo a mi abuela?

Solución: Le pasa _____ años.

En el patio de un colegio había 29 niñas y 8 de ellas se fueron. ¿Cuántas niñas hay ahora?

Solución:: Ahora hay

_____

Julio tenía 47 céntimos y ha gastado 32. ¿Cuántos céntimos le quedan?

Solución:: Le quedan

_____

Elaborado por Amaya Ariz info.ana@autismonavarra.com

64

¿Cuántas cerezas tiene Lucía, si le regalaron 48 cerezas y se ha comido 6?

Solución:
Lucía tiene
_____.

¿José Luis tenía 19 discos y ha prestado 7. ¿Cuántos discos le quedan?

Solución:
A José Luis le quedan
_____.

Ana tiene una caja con 7 pinturas. ¿Cuántas le faltan a Ana para tener 10 pinturas?

Una decena de pinturas:

Pinturas de Ana:

Pinturas que le faltan para tener 10:

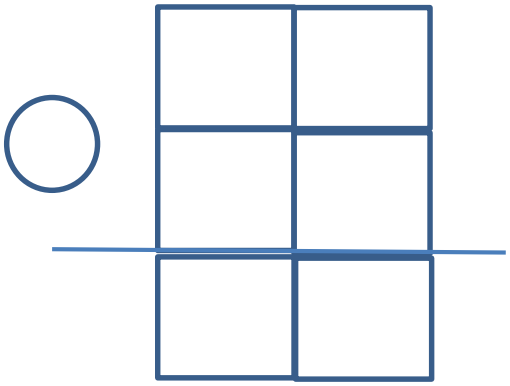

Solución:: Le faltan _____ pinturas para tener 10 pinturas.

Elaborado por Amaya Ariz info.ana@autismonavarra.com

65

En una mesa comen 10 niños y en otra 4, ¿Cuántos niños hay más en la primera mesa que en la segunda?

Niños en la primera mesa:

Niños en la segunda mesa:

Diferencia de niños entre las dos mesas:

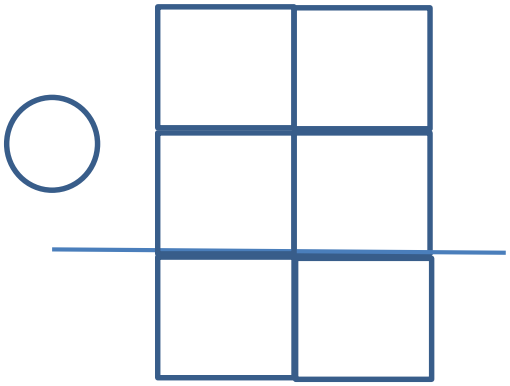

Solución:: En la primera mesa hay _____ niños más que en la segunda.

Alberto tiene 15 pegatinas. Coloca 5 en su álbum. ¿Cuántas pegatinas le quedan sin colocar?

Pegatinas que tiene:

Pegatinas que coloca en el álbum:

Pegatinas que le quedan:

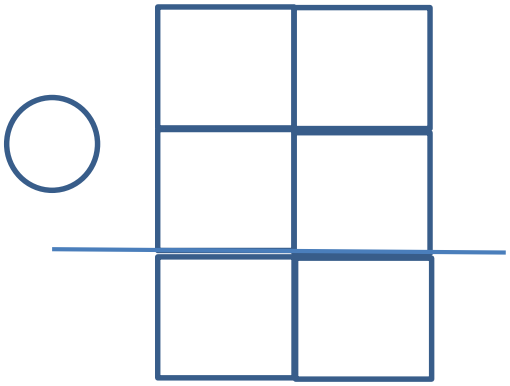

Solución:: A Alberto le quedan _____ pegatinas sin colocar en el álbum.

Elaborado por Amaya Ariz info.ana@autismonavarra.com

66

Un tren tenía 34 vagones. En la estación añaden 12 vagones más. ¿Cuántos vagones tiene ahora el tren?

Tenía:

Añaden:

Tiene:

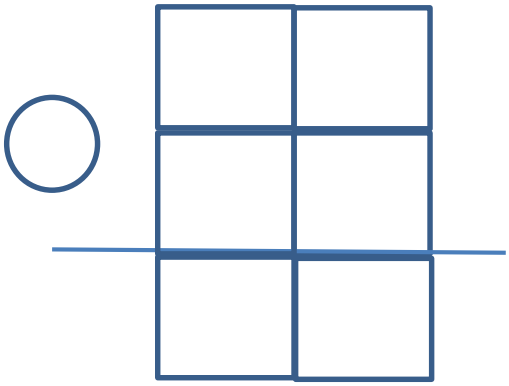

Solución:: Ahora tiene _____.

En un jardín había 42 rosas rojas. Esta semana han nacido 7 más. ¿Cuántas rosas hay ahora en el jardín?

Había:

Han nacido:

Hay:

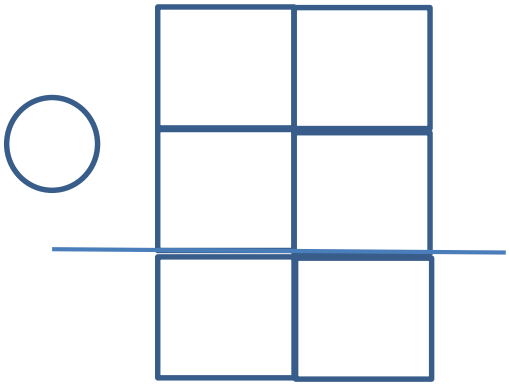

Solución:: Ahora hay _____.

Elaborado por Amaya Ariz info.ana@autismonavarra.com

67

Maribel tenía 6 cromos y se compra un sobre que trae 4 cromos más.
¿Cuántos cromos tiene Maribel?

Cromos que tenía Maribel:

Se compra:

Ahora tiene:

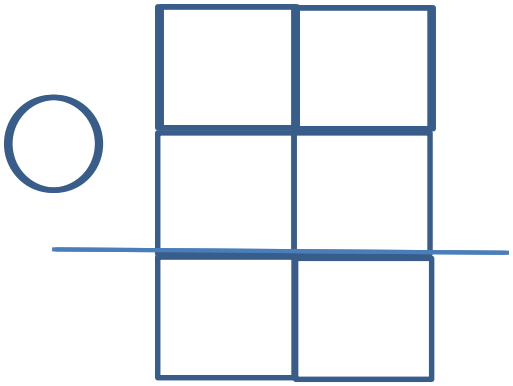

¿Tiene Maribel una decena de cromos? ☐ SÍ ☐ NO

De la decena de cromos que tiene ahora, Maribel regala 3 a un amigo.
¿Cuántos cromos le quedan a Maribel?

Cromos que tenía Maribel:

Regala:

Le quedan:

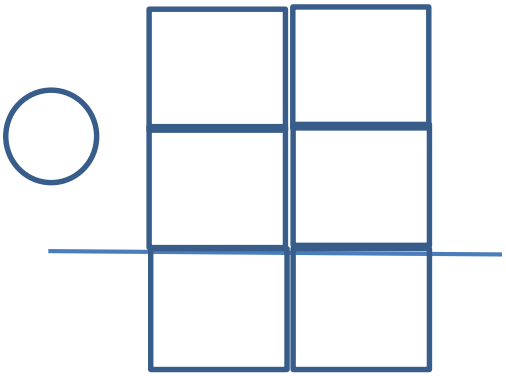

Después de haber regalado los 3 cromos al amigo, Maribel tiene:

☐ más cromos que antes.

☐ menos cromos que antes.

Elaborado por Amaya Ariz info.ana@autismonavarra.com

68

En una caja grande hay 24 tizas de colores y en una pequeña, 12.

¿En qué caja hay más tizas? ☐ En la grande ☐ En la pequeña

Calcula cuántas tizas hay entre las dos cajas:

Tizas en la caja grande:

Tizas en la caja pequeña:

Tizas en las dos cajas:

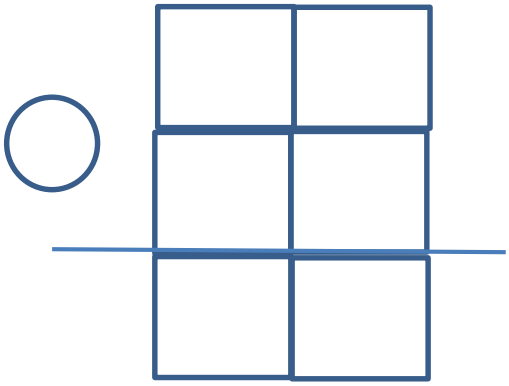

Solución: Entre las dos cajas hay _____ tizas

Calcula cuántas tizas hay de diferencia entre las dos cajas::

Tizas en la caja grande:

Tizas en la caja pequeña:

Diferencia de tizas:

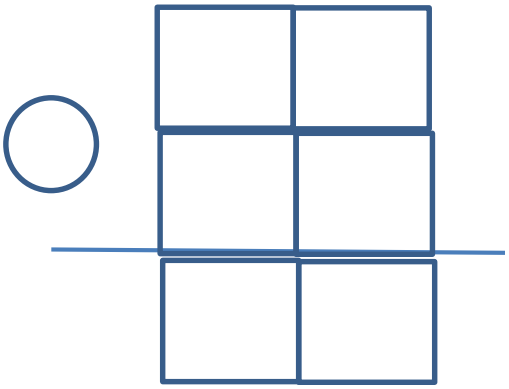

Solución: Hay _____ tizas más en la caja grande.

Elaborado por Amaya Ariz info.ana@autismonavarra.com

69

Completa el enunciado del problema con estas palabras:

Antes | Después

Cecilia _____ tenía un ramo con 45 flores, _____ vende 32 flores. ¿Con cuántas flores se queda Cecilia?

¿Qué operación tienes que hacer para resolver el problema?

☐ 45 + 32 ☐ 45 - 32

Una profesora tenía 57 lápices y ha repartido 25 entre sus alumnos. ¿Cuántos lápices tiene ahora?

Ahora tiene

_____

_____

En una caja había 64 bombones. Nos hemos comido 21. ¿Cuántos bombones quedan?

Quedan_____

_____

Elaborado por Amaya Ariz info.ana@autismonavarra.com

70

En un cajón había 48 botones. Han sacado 24. ¿Cuántos botones quedan?

En el cajón quedan

_____

_____

Un panadero tenía 36 bollos y ha vendido 22. ¿Cuántos bollos le quedan?

Le quedan

_____

_____

En un zoo hay 12 leones y 35 leonas. ¿Cuántos animales hay en total en el zoo?



Número de leones:

Número de leonas:

Número de animales:

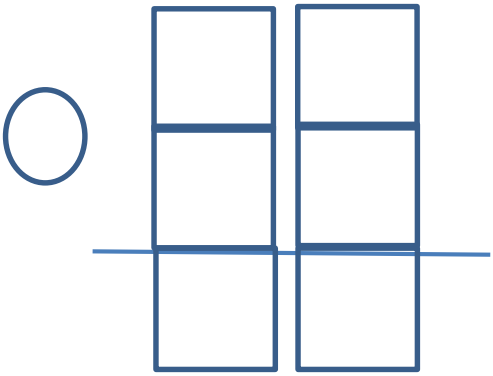

Solución: En el zoo hay _____ animales.

Elaborado por Amaya Ariz info.ana@autismonavarra.com

71

Clara tiene 15 años. ¿Cuántos años tendrá Clara dentro de 30 años?

Edad que tiene Clara:

Años que tienen que pasar:

Edad que tendrá Clara:

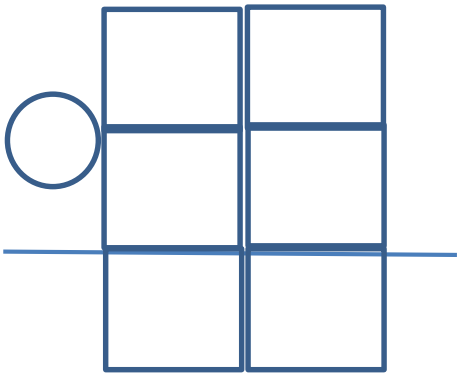

Solución: Dentro de 30 años, Clara tendrá _____ años.

A una excursión han llevado 48 bocadillos. Después de repartir un bocadillo a cada uno, han sobrado 11. ¿Cuántos excursionistas han ido a la excursión?

Bocadillos que han llevado:

Bocadillos que han sobrado:

Excursionistas que han ido:

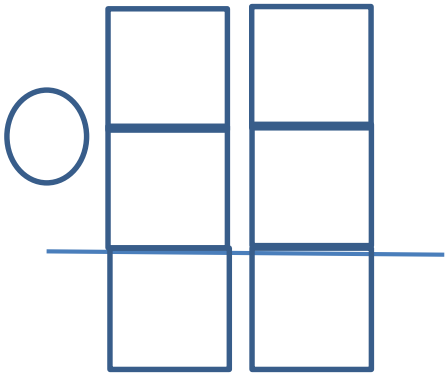

Solución: A la excursión han ido _____ excursionistas.

Elaborado por Amaya Ariz info.ana@autismonavarra.com

72

Victor se ha comprado un cuento que tiene 65 páginas. Hoy ha leído 22 páginas y mañana quiere leer 12 páginas más. ¿Cuántas páginas le faltarán para acabar el cuento?

¿Cuántas páginas tiene el cuento de Victor?_____ páginas.

¿Cuántas páginas ha leído hoy? _____ páginas.

¿Cuántas páginas quiere leer mañana? _____ páginas.

Calcula mentalmente:

- ¿Cuántas páginas ha leído hoy más que las que quiere leer mañana?
  ☐ 10 páginas ☐ 12 páginas ☐ 24 páginas

- ¿Cuántas páginas leerá entre hoy y mañana?
  ☐ 24 páginas ☐ 34 páginas ☐ 44 páginas

- Si restas las páginas que ha leído entre los dos días, de las páginas que tiene el libro, ¿qué obtienes?
  ☐ las páginas que le faltan por leer
  ☐ las páginas que leerá el próximo día



- Ahora completa:
  Páginas que tiene el libro: ☐
  Páginas que ha leído en los dos días: ☐
  Páginas que faltan por leer; ☐

Solución: Le faltan _____ páginas para acabar el cuento.

Elaborado por Amaya Ariz info.ana@autismonavarra.com

73

Una manada de elefantes estaba formada por 32 miembros. Nacieron 23 elefantitos más. ¿Cuántos elefantes tiene ahora la manada?



La _____ tiene ahora _____

En un aeropuerto hay 41 aviones y están aterrizando 15 aviones más. ¿Cuántos aviones habrá en el aeropuerto cuando aterricen?

En el _____ habrá _____

Elaborado por Amaya Ariz info.ana@autismonavarra.com

74

En mi calle hay 57 coches aparcados. Si 25 son de color rojo, ¿cuántos coches son de otro color?

Hay _____ coches de otro color

En un edificio tiene 47 ventas. Hay 12 ventanas abiertas. ¿Cuántas ventanas están cerradas?



Hay ☐ ventanas cerradas.

Isabel tiene 32 bombones y Luis tiene 55 bombones. ¿Cuántos bombones tienen entre los dos?

Respuesta: _____

Elaborado por Amaya Ariz info.ana@autismonavarra.com

75

Un día he leído 22 páginas de un libro y otro día 6 páginas. ¿Cuántas páginas he leído en total?

☐ sumar

☐ restar

Respuesta: _____

A Lourdes se le han perdido 42 fichas de un rompecabezas que tiene 75 fichas. ¿Cuántas fichas le quedan?



Respuesta: _____.

Un agricultor tenía 86 árboles. Una borrasca le ha hecho perder 53. ¿Cuántos árboles le quedan?



Respuesta: _____

Elaborado por Amaya Ariz info.ana@autismonavarra.com

76

En un árbol había tres pájaros, vienen otros tres más y después dos más. ¿Cuántos pájaros hay en total?

Pájaros que había en el árbol:

Pájaros que vienen primero:

Pájaros que vienen después:

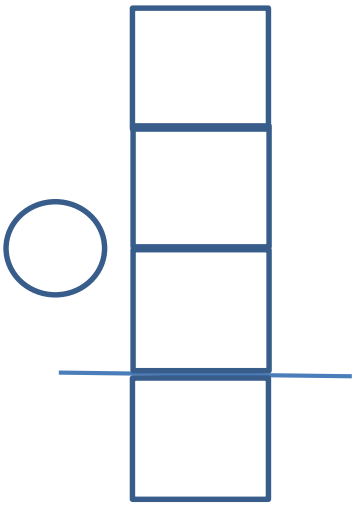

Total:

Solución: En el árbol hay _____ pájaros.

A Juan le han dado 3 peras, a María 4 y a Sandra 2. ¿Cuántas peras tienen entre los tres niños?

Peras que tiene Juan:

Peras que tiene María:

Peras que tiene Sandra:



Total:

Solución: Entre los 3 niños tienen _____ peras.

Elaborado por Amaya Ariz info.ana@autismonavarra.com

77

En un estuche hay 5 rotuladores. Eduardo guarda 3 rotuladores más y Elena, 1. ¿Cuántos rotuladores hay ahora en el estuche?

Rotuladores que hay en el estuche:

Rotuladores que guarda Eduardo:

Rotuladores que guarda Elena:

Total:

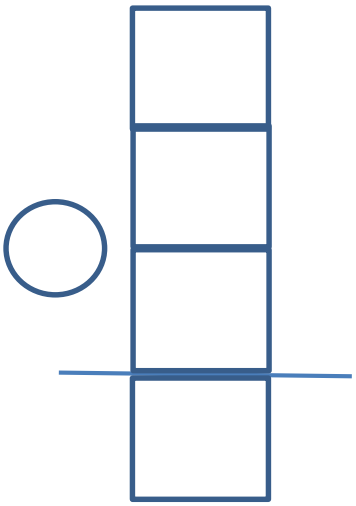

Solución: En el estuche hay _____ rotuladores.

Nos han regalado 27 rosquillas y hemos comido 23. ¿Cuántas rosquillas nos quedan?

Nos regalan:

Nos comemos:

Nos quedan:

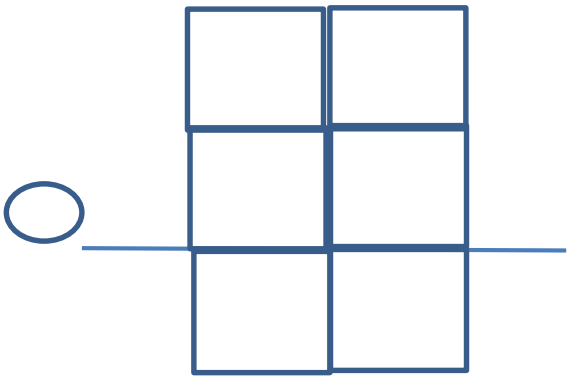

Solución: Nos quedan _____ rosquillas.

Elaborado por Amaya Ariz info.ana@autismonavarra.com

78

Cristina tiene 10 años, Daniel 6 años e Ingrid 3. ¿Cuántos años tienen entre los tres?

Edad de Cristina:

Edad de Daniel:

Edad de Ingrid:

Edad de los tres juntos:

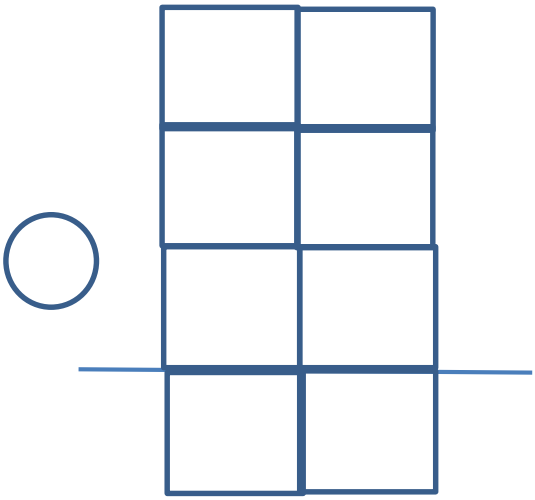



Solución: Entre los tres tienen _____ años.

En una mesa había 2 bandejas. En la primera bandeja había 12 bocadillos y en la segunda 16 bocadillos. ¿Cuántos bocadillos había en total?

Edad de Cristina:

Edad de Daniel:

Edad de Ingrid:

Edad de los tres juntos:

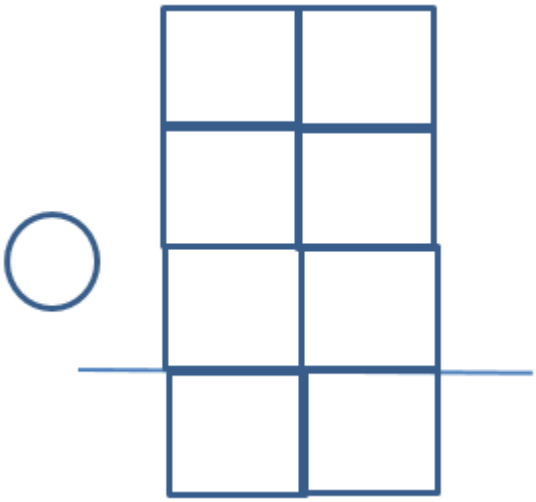



Solución: Entre las dos bandejas hay _____ bocadillos.

Elaborado por Amaya Ariz info.ana@autismonavarra.com

79

Una colección de cromos de fútbol tiene 59 cromos. Ya tengo 7. ¿Cuántos me faltan para completar la colección?

Respuesta:
Me faltan_____

Un atleta necesita recorrer 42 kilómetros. Ya ha recorrido 14. ¿Cuántos kilómetros le faltan?

Respuesta:
Le faltan _____

Marta quiere comprar una muñeca que cuesta 28 euros y tiene 17 euros, ¿cuántos euros le faltan para comprar la muñeca?

Respuesta:
A Marta le faltan _____

En una sala de cine hay sillas para 97 personas. Si hay 93 personas, ¿cuántas sillas vacías quedan?

Respuesta:
Quedan _____

Elaborado por Amaya Ariz info.ana@autismonavarra.com

80

¿Cuántos cartones de leche consume una familia que un día consume 3 cartones, otro día 4 y el tercer día 6 cartones?

Operación: ☐ sumar ☐ restar

Respuesta: _____

Para ir hasta el parque, Inés tiene que caminar 7 calles. Ya ha caminado. 3 calles. ¿Cuántas calles le falta caminar?

Operación: ☐ sumar ☐ restar

Respuesta: _____

En una cesta había 28 huevos y se han roto 13. ¿Cuántos huevos quedan?

Operación: ☐ sumar ☐ restar



Respuesta: _____

Elaborado por Amaya Ariz info.ana@autismonavarra.com

81

En un tonel vacío hemos metido 41 litros, luego 16 y más tarde 22 litros. ¿Cuántos litros hay ahora en el tonel?

Operación: ☐ sumar ☐ restar

Respuesta: _____

Estoy haciendo un puzle que tiene 64 piezas. Ya he colocado 12. ¿Cuántas piezas me faltan por colocar?

Operación: ☐ sumar ☐ restar



Me faltan por colocar _____

Lucía tiene una fiesta de 65 invitados. A la fiesta ya han llegado 24 invitados. ¿Cuántos faltan por llegar?

Operación: ☐ sumar ☐ restar

Faltan por llegar _____

Elaborado por Amaya Ariz info.ana@autismonavarra.com

82

¿Cuánto dinero tenía Jorge si después de comprarse unos patines que le han costado 33 euros, todavía le sobran 15 euros?

Precio de los patines:

Dinero que le sobra:

Dinero que tenía al principio:

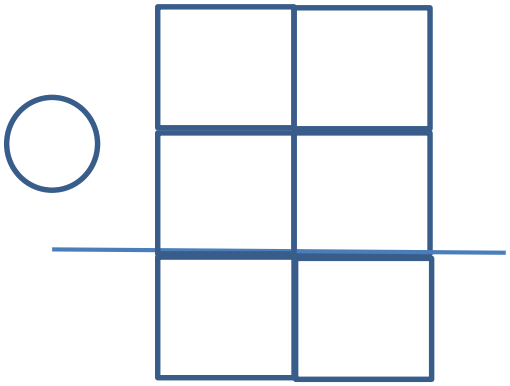

Solución: Jorge tenía _____ euros.

Pilar tenía 98 almendras y Carmen, solamente 45. ¿Cuántas almendras le faltan a Carmen para tener entre las dos el mismo número de almendras?

Pilar tiene:

Carmen tiene:

Le faltan para tener las mismas:

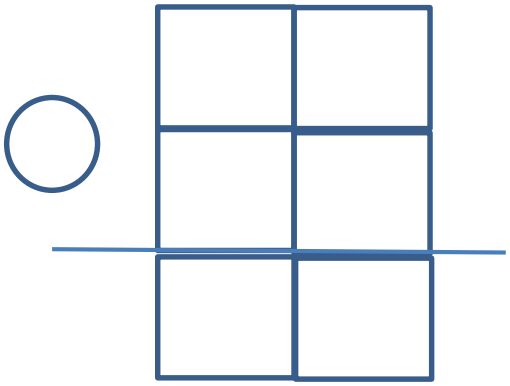

Solución: A Carmen le faltan _____ almendras para tener la misma cantidad que Pilar.

Elaborado por Amaya Ariz info.ana@autismonavarra.com

83

Para llegar a su casa Juan tiene que subir 40 escaleras, Noelia 25 y Fátima, 33. ¿Cuántas escaleras tienen que subir entre los tres para llegar a sus casas?

Juan sube:

Noelia sube:

Fátima sube:

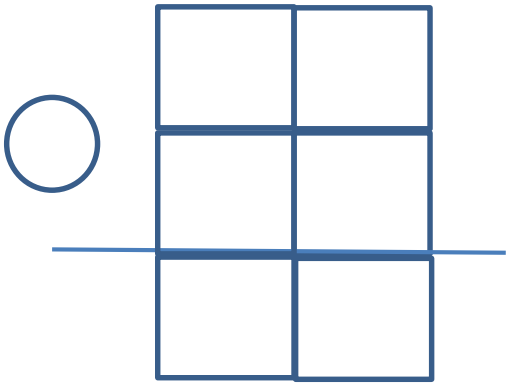

Solución: Entre los tres suben _____ escaleras.

El comedor del colegio tenía 53 mesas. Como han venido niños nuevos, han puesto 13 mesas más. ¿Cuántas mesas tiene ahora el comedor del colegio?



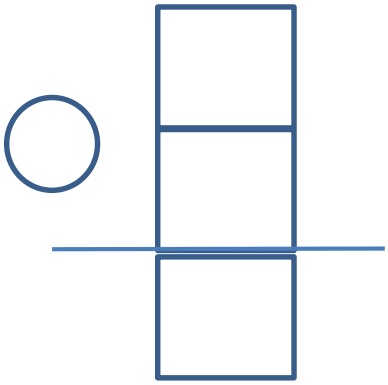

El comedor del colegio tiene ahora _____ mesas.

Elaborado por Amaya Ariz info.ana@autismonavarra.com

84

La tarta de cumpleaños del abuelo tiene 64 velas. Mamá ya ha encendido 12. ¿Cuántas velas faltan por encender?

Faltan por encender _____ velas.

En una clase hay 29 niños, de los cuales, 5 llevan gafas. ¿Cuántos niños no llevan gafas?

Operación: ☐ sumar ☐ restar

Respuesta: _____.

Un rompecabezas tiene 96 fichas. Si faltan por poner 42 fichas, ¿cuántas se han puesto ya?

Operación: ☐ sumar ☐ restar

Respuesta: _____.

Elaborado por Amaya Ariz info.ana@autismonavarra.com

85

Montserrat ha vendido 14 bufandas, 3 chaquetas y 62 gorros. ¿Cuántas prendas ha vendido en total?

Respuesta: Ha vendido _____

Felipe tiene que completar 64 puntos para ganar un concurso y todavía le faltan 33 puntos. ¿Cuántos puntos ha hecho?

Operación: ☐ sumar ☐ restar



Respuesta: _____.

Tengo una hucha con 63 euros y meto 15 euros. ¿Cuántos tengo ahora?

Operación: ☐ sumar ☐ restar



Respuesta: _____ .

Elaborado por Amaya Ariz info.ana@autismonavarra.com

86

Un albañil coloca 71 ladrillos y su aprendiz veinte ladrillos menos. ¿Cuántos ladrillos más ha puesto el albañil?



Respuesta: _____

La profesora pregunta a Luis cuántas canicas son 45 canicas y 23 canicas. Señala la respuesta acertada:



☐ 22 ☐ 78 ☐ 68

Juan tiene en el bolsillo derecho 61 cromos y en el izquierdo 41. ¿Cuántos cromos más tiene en el bolsillo derecho?

Tiene _____

Mi papá pesa 87 kilos y mi madre 22 menos que mi padre. ¿Cuánto pesa mi mamá?

Mi mamá pesa _____ kilos.

Elaborado por Amaya Ariz info.ana@autismonavarra.com

87

En un hormiguero había 32 hormigas. Ahora hay 77. ¿Cuántas hormigas han entrado en el hormiguero?

Ahora hay:

Antes había:

Han entrado:

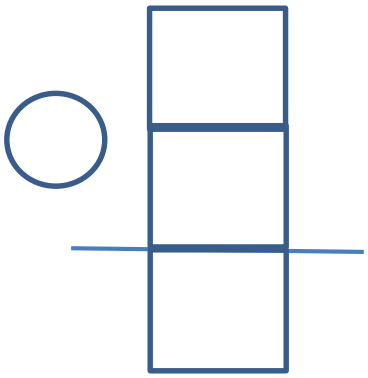

En el hormiguero han entrado _____ hormigas.

En una carrera había 24 coches. Ahora hay 68 coches. ¿Cuántos coches se han unido a la carrera?

Ahora hay:

Antes había:

Se han unido:

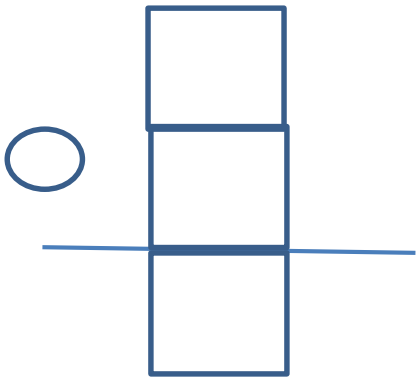

Se han unido a la carrera _____ coches.

Elaborado por Amaya Ariz info.ana@autismonavarra.com

88

En un supermercado había 89 botellas de leche. Ahora solo quedan 15. ¿Cuántas botellas de leche se han vendido?

Antes había:

Quedan:

De han vendido:

Se han vendido _____ botellas

El domingo me dieron 86 céntimos de euro. He comprado algunas cosas y ahora solo me quedan 23. ¿Cuántos céntimos de euro he gastado?

Me dieron:

Me quedan:

He gastado:

Me he gastado _____ céntimos de euro.

Elaborado por Amaya Ariz info.ana@autismonavarra.com

89

En una panadería se han vendido bollos de pan de 50 gramos por la mañana y 12 bollos de pan por la tarde. ¿Cuántos se han vendido en total?



Se han vendido _____ bollos.

Nuria tiene un puzle de 57 piezas. Le quedan 17 piezas en la mesa. ¿Cuántas ha colocado ya?



Ha colocado _____ piezas.

Hemos comido 15 pasteles de una bandeja y aún quedan 21. ¿Cuántos había en total?



Había _____ pasteles

Elaborado por Amaya Ariz info.ana@autismonavarra.com

72

Clara tiene 15 años. ¿Cuántos años tendrá Clara dentro de 30 años?

Edad que tiene Clara:

Años que tienen que pasar:

Edad que tendrá Clara:

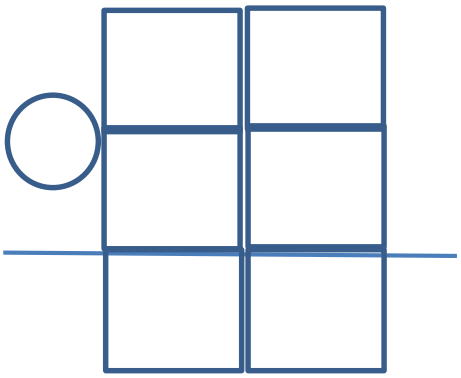

Solución: Dentro de 30 años, Clara tendrá _____ años.

Elaborado por Amaya Ariz info.ana@autismonavarra.com

72

Clara tiene 15 años. ¿Cuántos años tendrá Clara dentro de 30 años?

Edad que tiene Clara:

Años que tienen que pasar:

Edad que tendrá Clara:

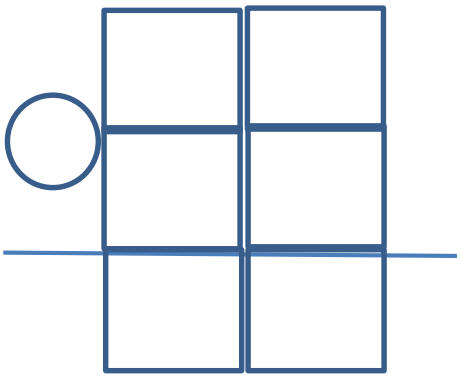

Solución: Dentro de 30 años, Clara tendrá _____ años.

Elaborado por Amaya Ariz info.ana@autismonavarra.com